理科（気象の観測②）

・気圧の単位は ＿＿＿＿（記号：＿＿）。

・〃　等しい所を結んだ線を ＿＿＿＿。

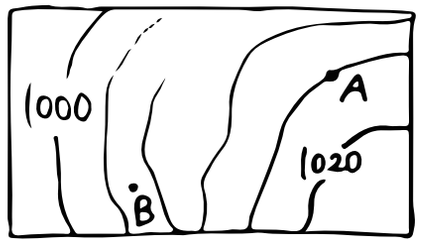

A…

B…

・まわりより気圧が高いところを ＿＿＿＿。

〃　低い　〃 ＿＿＿＿。

・1気圧＝約＿＿＿＿

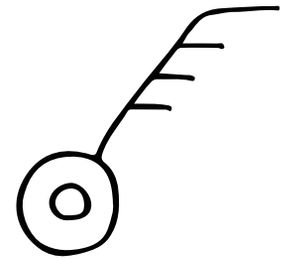

天気…＿＿＿＿

風向…＿＿＿＿

風力…＿＿＿＿



何色!? 気温→＿ 湿度→＿ 気圧→＿

気温が高いのは ＿＿＿＿

湿度　〃 ＿＿＿＿

気圧　〃 ＿＿＿＿

© 葉一「とある男が授業をしてみた」http://www.19ch.tv